LIEN chapitre 1 Frise géométrique :

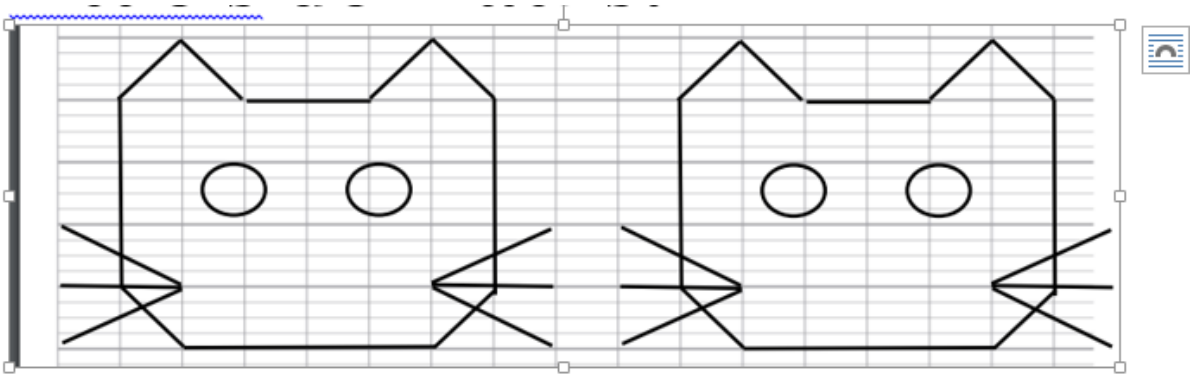

LIEN chapitre 6

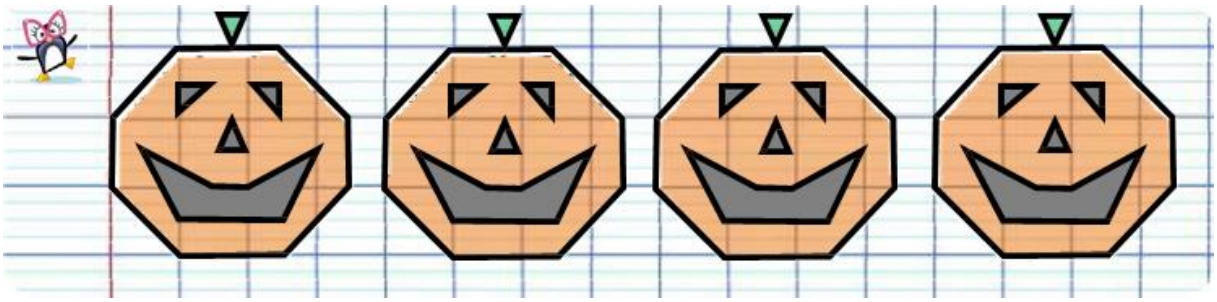

---

mesure: **MES1** Ecris l'heure du matin et de l'après-midi indiquée par l'horloge. **CM1-CM2:** en + **MES2**: Ce matin, Harry est à la gare et son train part dans 20 minutes. Il regarde sur le quai et voit l'horloge ci-dessous. A quelle heure part son train?

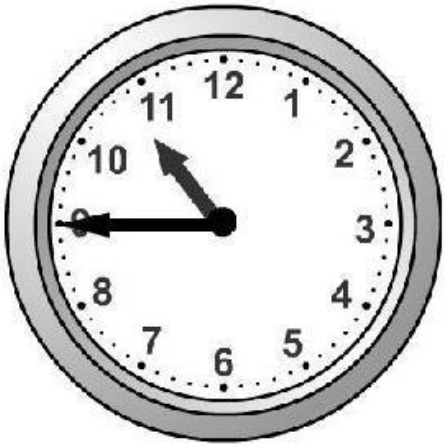

mesure: **MES1** Ecris l'heure du matin et de l'après-midi indiquée par l'horloge.
CM1-CM2: en + **MES2**: Ce matin, Harry est à la gare et son train part dans 30 minutes. Il regarde sur le quai et voit l'horloge ci-dessous. A quelle heure part son train?

Lien Noël Frise géométrique :

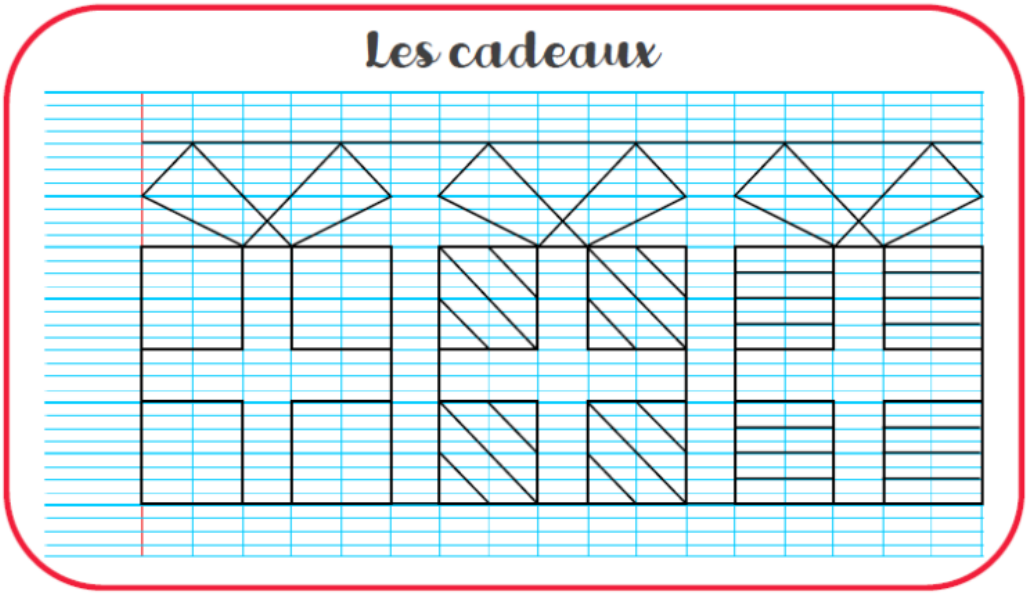

mesure: **MES1** Ecris l'heure du matin et de l'après-midi indiquée par l'horloge.
CM1-CM2: en + **MES2**: Ce matin, Harry est à la gare et son train part dans 30 minutes. Il regarde sur le quai et voit l'horloge ci-dessous. A quelle heure part son train?